بنیاد علمی آموزشی قلم‌چی

دفترچه سؤال



دوم دبستان

۲۹ آبان ۱۴۰۵

تعداد کل سؤالات: ۴۰ سؤال

مدت پاسخ‌گویی به آزمون: ۸۰ دقیقه

نام درس	تعداد سؤال	شماره‌ی سؤال	وقت پیشنهادی	برنامه‌ی آزمون
ریاضی	۱۰	۱–۱۰	۲۰ دقیقه	عدد و رقم صفحه‌های ۱ تا ۱۸
ریاضی	۱۰	۱۱–۲۰	۲۰ دقیقه	جمع و تفریق اعداد دو رقمی صفحه‌های ۱۹ تا ۳۶
علوم	۱۰	۲۱ – ۳۰	۲۰ دقیقه	زنگ علوم،...، زندگی ما و گردش زمین – ۱ صفحه‌های ۱۲ تا ۲۹
فارسی	۱۰	۳۱ – ۴۰	۲۰ دقیقه	ستایش،...، خرس کوچولو صفحه‌های ۲ تا ۲۲ نگارش فارسی: صفحه‌های ۹ تا ۳۰

ترنج بوک
تلاشی در مسیر توانمندی

بنیاد علمی آموزشی قلم‌چی (وقف عام)

دفتر مرکزی: خیابان انقلاب _ بین صبا و فلسطین _ پلاک ۹۲۳_ تلفن: ۶۴۶۳-۰۲۱

سؤال‌هایی که با آیکون ✓ مشخص شده‌اند، سؤال‌هایی هستند که مشابه آن‌ها در امتحانات تشریحی مورد پرسش قرار می‌گیرد.

ریاضی — زمان پاسخ‌گویی: ۲۰ دقیقه

عدد و رقم ـ صفحه‌های ۱ تا ۱۸ کتاب درسی

۱- ۴ دسته‌ی ده‌تایی مداد با ۳ دسته‌ی ده‌تایی مداد را روی هم ریخته‌ایم و به آن‌ها ۷ تا مداد اضافه کرده‌ایم. حالا چند مداد داریم؟



۱) ۷۸ مداد
۲) ۷۷ مداد
۳) ۴۷ مداد
۴) ۳۷ مداد

✓ ۲- عدد بعدی الگوی روبه‌رو کدام است؟ ۱ , ۸ , ۱۵ , ...

۱) ۲۱
۲) ۲۰
۳) ۲۲
۴) ۲۳

✓ ۳- با رقم‌های ۷ و ۸ چند عدد دو رقمی می‌توان نوشت؟

۱) ۱
۲) ۳
۳) ۴
۴) ۲

۴- بزرگ‌ترین و کوچک‌ترین عدد دو رقمی (بدون رقم تکراری) که با رقم‌ها ۱ ، ۴ و ۷ می‌توان نوشت به ترتیب از راست به چپ کدام است؟

۱) ۷۴ و ۱۴
۲) ۷۱ و ۱۷
۳) ۷۱ و ۱۴
۴) ۷۴ و ۱۷

۵- فروشگاهی ۴ طبقه دارد و در هر طبقه ۷ مغازه وجود دارد. در این فروشگاه چند مغازه وجود دارد؟

۱) ۲۴
۲) ۲۸
۳) ۳۲
۴) ۳۶

✓ ۶- محور زیر کدام تفریق را نشان می‌دهد؟

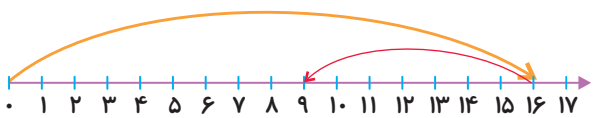

۱) ۱۶ − ۹ =
۲) ۱۶ − ۵ =
۳) ۱۶ − ۶ =
۴) ۱۶ − ۷ =

۷- حاصل کدام عبارت ۱۲ نمی‌شود؟

۱) ۶+۶ ۲) ۵+۷

۳) ۵+۸ ۴) ۳+۹

۸- در الگوهای عددی زیر به جای □ و ○ به ترتیب از راست به چپ چه عددی قرار می‌گیرد؟

۱) ۵۵ , ۲۷ □ , ۱۹ , ۱۲ , ۶ , ۱

۲) ۵۵ , ۲۶ ○ , ۴۵ , ۳۵ , ۲۵

۳) ۵۰ , ۲۶

۴) ۵۰ , ۲۷

۹- با توجه به شکل زیر کدام گزینه صحیح نیست؟

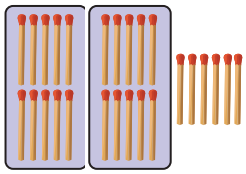

۱) عدد مربوط به شکل، ۲۶ است.

۲) این عدد ۲ رقم دارد.

۳) با رقم‌های این عدد می‌توان ۳ عدد ۲ رقمی نوشت.

۴) رقم‌های این عدد ۲ و ۶ است.

۱۰- سینا از محمد پرسید: «تو چند سال داری؟» او گفت: «من از خواهرم ۳ سال کوچک‌ترم و خواهرم از بزرگ‌ترین عدد یک رقمی، ۴ سال بزرگ‌تر است». محمد چند سال دارد؟



۱) ۸ ۲) ۹

۳) ۱۱ ۴) ۱۰

ترنج بوک
تلاشی در مسیر موفقیت

ریاضی
جمع و تفریق اعداد دو رقمی ـ صفحه‌های ۱۹ تا ۳۶ کتاب درسی
زمان پاسخ‌گویی: ۲۰ دقیقه

۱۱- کدام حاصل صحیح است؟

۱) ۹۰−۲۰=۸۰
۲) ۳۰+۲۰=۴۰
۳) ۸۰−۳۰=۵۰
۴) ۵۰+۴۰=۷۰

۱۲- علی ۵ بسته ۱۰ تایی مداد داشت. او ۳ بسته از آنها را به دوستش داد. چند مداد برای او باقی مانده است؟



۱) ۱۰
۲) ۲۰
۳) ۵۰
۴) ۳۰

۱۳- دارا یک کتاب ۶۰ صفحه‌ای دارد. او ۲۷ صفحه از آن را دیروز و ۱۳ صفحه را امروز خوانده است. چند صفحه از کتاب او باقی‌مانده است؟



۱) ۴۰
۲) ۲۰
۳) ۳۰
۴) ۵۰

ترنج بوک
تلاشی در مسیر موفقیت

۱۴- کدام گزینه نادرست است؟

۱) ۳۲ به عدد ۳۰ نزدیک‌تر از ۴۰ است.
۲) ۲۶ به عدد ۲۰ نزدیک‌تر از ۳۰ است.
۳) ۷۳ به عدد ۷۰ نزدیک‌تر از ۸۰ است.
۴) ۸۸ به عدد ۹۰ نزدیک‌تر از ۸۰ است.

۱۵- حاصل کدام یک از عبارات زیر با سایر گزینه‌ها متفاوت است؟

۱) ۲۰+۱۰
۲) ۵۰−۲۰
۳) ۲۵+۱۰
۴) ۷۵−۴۵

۱۶- علی ۵۸ گردو دارد. او ۲۴ تا از گردوهایش را شکسته و باقی را نشکسته است. علی چند گردوی نشکسته دارد؟



۱) ۲۸
۲) ۲۴
۳) ۳۸
۴) ۳۴



۱۷- ساعت زیر چه زمانی را نشان می‌دهد؟

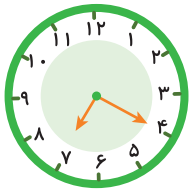

۱) ۷ و ۲۰ دقیقه

۲) ۴ و ۳۵ دقیقه

۳) ۶ و ۲۰ دقیقه

۴) ۷ و ۴۰ دقیقه

۱۸- یک نجّار ۸۷ میخ داشت. او ۵۹ تا از میخ‌هایش را برای ساخت یک کمد استفاده کرد. چند میخ برای نجّار باقی‌مانده است؟



۱) ۳۷

۲) ۲۷

۳) ۲۸

۴) ۲۹

ترنج بوک
همراهی در مسیر موفقیت

۱۹- در جای خالی روبه‌رو چه عددی قرار می‌گیرد؟ $۶۰-۵۰+۲۰=\square$

۱) ۳۰

۲) ۱۰

۳) ۵۰

۴) ۴۰

۲۰- در کدام گزینه، خانه‌های خالی جدول روبه‌رو به درستی پُر شده است؟

−	۷	۹
۲۳		
۴۸		

۱)

−	۷	۹
۲۳	۱۶	۱۴
۴۸	۴۱	۳۹

۲)

−	۷	۹
۲۳	۱۶	۱۵
۴۸	۴۱	۳۹

۳)

−	۷	۹
۲۳	۱۷	۱۵
۴۸	۴۱	۳۹

۴)

−	۷	۹
۲۳	۱۷	۱۴
۴۸	۴۰	۳۸

سؤال‌هایی که با آیکون ✍ مشخص شده‌اند، سؤال‌هایی هستند که مشابه آن‌ها در امتحانات تشریحی مورد پرسش قرار می‌گیرد.

علوم — زمان پاسخ‌گویی: ۲۰ دقیقه

زنگ علوم، ...، زندگی و گردش زمین (۱) - صفحه‌های ۱۲ تا ۲۹ کتاب درسی

۲۱- کدام‌یک می‌تواند باعث آلوده شدن آب رودخانه شود؟

۱) تصفیه کردن آب
۲) ورود کود شیمیایی کشاورزی به آب
۳) شنا کردن
۴) ماهی‌گیری

۲۲- کدام گزینه نادرست است؟

۱) بوییدن و چشیدن بعضی چیزها برای سلامتی ضرر دارد.
۲) برای بیان دقیق مشاهدات از یادداشت‌برداری استفاده می‌شود.
۳) مشاهده کردن شامل استفاده از حواس پنج‌گانه می‌باشد.
۴) برای درک مزه‌ی غذا از حس شنوایی استفاده می‌کنیم.

۲۳- ✍ چگونه می‌توانیم هوایی سالم داشته باشیم؟

۱) با سوزاندن زباله‌های شهری
۲) با استفاده ازموتور سیکلت به‌جای دوچرخه
۳) با کاشتن درخت و گیاه
۴) با استفاده از خودروی شخصی به‌جای وسایل نقلیه‌ی عمومی

تلاشی درمسیر موفقیت

۲۴- کدام گزینه درست است؟

۱) برخی از کارهای انسان آب رودخانه را آلوده می‌کند.
۲) آب رودخانه بهداشتی و قابل آشامیدن نیست.
۳) آلوده شدن آب رودخانه‌ها باعث از بین رفتن ماهی‌های رودخانه می‌شود.
۴) همه‌ی موارد

۲۵- جانوران از آب چه استفاده‌ای می‌کنند؟

۱) برای نوشیدن و زنده ماندن
۲) برای شستن و تمیز کردن خود
۳) برای شنا کردن
۴) همه‌ی موارد

۲۶- کدام‌یک از موارد زیر به داشتن محیطی سالم برای زندگی کمک می‌کند؟

۱) استفاده از روزنامه‌ی باطله به‌جای پلاستیک یا کاغذ جدید برای بسته‌بندی سبزی
۲) قطع درختان جنگل برای تولید کاغذ
۳) ورود فاضلاب کارخانه‌ها به آب رودخانه‌ها
۴) دفع زباله‌ها با ریختن آن‌ها در آب دریا

۲۷–چند مورد از موارد زیر صحیح است؟

الف) صبح که خورشید طلوع می‌کند، زمین به‌طور تدریجی گرم می‌شود.

ب) چرخش زمین به دور خود فصل‌ها را به‌وجود می‌آورد.

ج) زمین در ۲۴ ساعت چهار بار به دور خود می‌چرخد.

۱) ۱ ۲) ۲ ۳) ۳ ۴) صفر

۲۸–کدام‌یک از جانوران زیر شب‌ها به فعالیت می‌پردازد و روزها استراحت می‌کند؟

۱) (خفاش) 

۲) (جغد) 

۳) (پلنگ) 

۴) گزینه‌های «۱» و «۲»

۲۹–کدام‌یک از افراد زیر در هنگام شب نیز به فعالیت خود ادامه می‌دهند؟

۱) (معلم) 

۲) (پلیس) 

۳) (دکتر) 

۴) گزینه‌های «۲» و «۳»

۳۰–کدام گزینه نادرست است؟

۱) مقدار کمی از نور و گرمای خورشید به کره‌ی زمین می‌رسد.

۲) گرمای کره‌ی زمین در تمام روز به یک اندازه است.

۳) گیاهان با استفاده از نور خورشید رشد می‌کنند و برای خود و جانداران دیگر غذا تهیه می‌کنند.

۴) جانداران در شب و روز کارهای متفاوتی انجام می‌دهند.

سؤال‌هایی که با آیکون ✍ مشخص شده‌اند، سؤال‌هایی هستند که مشابه آن‌ها در امتحانات تشریحی مورد پرسش قرار می‌گیرد.

فارسی: ستایش، ... خرس کوچولو — زمان پاسخ‌گویی: ۲۰ دقیقه

فارسی: صفحه‌های ۲ تا ۲۲ کتاب درسی / نگارش فارسی: صفحه‌های ۹ تا ۳۰ کتاب درسی

۳۱- در عبارت کدام گزینه، از نظر ساختاری کلمه‌ای مانند «باادب» دیده نمی‌شود؟

۱) مادر زهرا زن باسلیقه و مهربانی است.

۲) علم و دانایی برای هر انسان یک دارایی باارزش است.

۳) سعدی شاعری باسواد و آگاه بود.

۴) فردوسی با کمک شعر و اندیشه توانست زبان فارسی را حفظ کند.

۳۲- در کدام گزینه، معنی هر دو واژه به درستی بیان شده است؟

۱) تندرستی: زیبایی – اتفاق: حادثه

۲) پاکیزه: تمیز – پربرکت: پرنعمت

۳) غافل: دانا – مشورت: هم‌فکری

۴) سرآغاز: انتها – جماعت: دسته‌جمعی

۳۳- ✍ در کدام گزینه، با اضافه کردن «هم» به ابتدای یک یا هر دو واژه، کلمه‌ی جدید و معناداری ساخته نمی‌شود؟

۱) کلاس – عقیده

۲) نظر – اتاقی

۳) کار – شهری

۴) کتاب‌خانه - سو

۳۴- در کدام گزینه، نادرستی املایی وجود دارد؟

۱) سپاس‌گزار – نشاط

۲) تعجب – بی‌حوصله

۳) احوال‌پرسی – چراغانی

۴) پیغمبر – عمل کردن

۳۵- ✍ در پایان جمله‌ی کدام گزینه، علامت پرسش (؟) قرارمی‌گیرد؟

۱) بهتر است همیشه خود را پاکیزه نگه‌داری

۲) وقتی چشم دخترک و پسرک به چغندر افتاد، از خوش‌حالی فریاد کشیدند

۳) ما برای موفقیّت خود، بسیار تلاش می‌کنیم

۴) اگر گوش نداشتیم، چه می‌شد

ترنج بوک
تلاشی در مسیر موفقیت

۳۶–صدای نشانه‌ی «و» در کلمات کدام گزینه یکسان نیست؟

۱) کوثر – مونس
۲) خود – شوهر
۳) خواهر – استخوان
۴) کاوُش – کشور

۳۷–بیت کدام گزینه نادرست است؟

۱) آن را به بالا، پرتاب کردم / این کار را من، در خواب کردم
۲) من یار مهربانم / دانا و خوش‌بیانم
۳) باد آسمان را دیشب تکان داد / سه تا ستاره، در دستم افتاد
۴) من دوستی هنرمند / با سود و بی‌زیانم

۳۸–با توجه به داستان «چغندر پربرکت»، کدام گزینه درست نیست؟

۱) پیرمرد و پیرزن با دو نوه‌ی کوچکشان در مزرعه‌ای زندگی می‌کردند.
۲) پیرمرد هر سال در مزرعه‌اش چیزی می‌کاشت.
۳) پیرمرد و پیرزن با کمک همسایه‌هایشان توانستند چغندر را از خاک بیرون بیاورند.
۴) پیرمرد چغندری را انتخاب کرد و برگ‌هایش را کشید؛ اما چغندر بیرون نیامد.

۳۹–با توجه به درس «مسجد محلّه‌ی ما»، کدام گزینه درست است؟

۱) کار بنایی مسجد، هنوز تمام نشده بود.
۲) مردم فقط برای نماز خواندن به مسجد محلّه می‌آیند.
۳) وقتی برای خواندن نماز به مسجد می‌آییم، از حال یکدیگر باخبر می‌شویم.
۴) قبل از نماز، امام جماعت از همه‌ی کسانی که در ساخت مسجد کمک کرده بودند، تشکر کرد.

۴۰–کدام گزینه پیام مناسب‌تری برای درس «خرس کوچولو» است؟

۱) هر کاری را باید بدون فکر انجام داد.
۲) رعایت بهداشت باعث سلامتی می‌شود.
۳) عسل خوردن همیشه باعث بیماری می‌شود.
۴) فقط بزرگ‌ترها می‌توانند مشکلات را حل کنند.

تلاشی درمسیر موفقیت