بنیاد علمی آموزشی قلم‌چی (وقف عام)

دفترچه سؤال

۲۹ آبان ۱۴۰۵

سوم دبستان

تعداد کل سؤالات عادی: ۵۰ سؤال

مدت پاسخ‌گویی به آزمون: ۶۰ دقیقه

نام درس	تعداد سؤال	شماره‌ی سؤال	وقت پیشنهادی	برنامه‌ی آزمون
ریاضی	۱۰	۱–۱۰	۱۵ دقیقه	الگوها، عددهای چهاررقمی صفحه‌های ۷ تا ۴۲
ریاضی	۱۰	۱۱–۲۰	۱۵ دقیقه	
علوم	۱۰	۲۱ – ۳۰	۱۰ دقیقه	زنگ علوم، ...، آب ماده‌ی باارزش صفحه‌های ۷ تا ۵۲
فارسی	۱۰	۳۱–۴۰	۱۰ دقیقه	ستایش، ...، آواز گنجشک فارسی: صفحه‌های ۱۰ تا ۴۴ نگارش فارسی: صفحه‌های ۸ تا ۳۰
مطالعات اجتماعی	۵	۴۱ – ۴۵	۵ دقیقه	من به دنیا آمدم، ...، از بزرگ‌ترها قدردانی کنیم صفحه‌های ۲ تا ۲۸
هدیه‌های آسمان	۵	۴۶ – ۵۰	۵ دقیقه	آستین‌های خالی، ...، روز دهم صفحه‌های ۸ تا ۳۹

ترنج بوک
تلاشی در مسیر موفقیت

مدت پاسخ‌گویی به داستان خواندن برای فهمیدن: ۲۰ دقیقه

نام درس	تعداد سؤال	شماره‌ی سؤال	وقت پیشنهادی
داستان مبعث	ــــ	ــــ	۱۰ دقیقه
سؤالات داستان مبعث	۱۰	۵۱ – ۶۰	۱۰ دقیقه

بنیاد علمی آموزشی قلم‌چی (وقف عام)

دفتر مرکزی: خیابان انقلاب _ بین صبا و فلسطین _ پلاک ۹۲۳_ تلفن: ۶۴۶۳-۰۲۱

«آزمون ۲۹ آبان» - سوم دبستان

سؤال‌هایی که با آیکون ✍ مشخص شده‌اند، سؤال‌هایی هستند که مشابه آن‌ها در امتحانات تشریحی مورد پرسش قرار می‌گیرد.

ریاضی — **زمان پاسخ‌گویی: ۱۵ دقیقه**

الگوها - صفحه‌های ۷ تا ۲۴ کتاب درسی

۱-کدام یک از شکل‌های زیر خط تقارن دارد؟

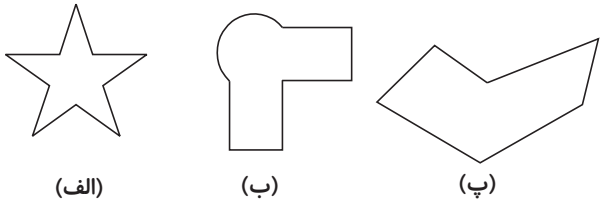

۱) فقط (الف)

۲) (الف) و (پ)

۳) (ب) و (پ)

۴) (الف) و (ب)

۲-آقای یوسفی مدادی را ۵۰۰ تومان می‌خرد و ۵۵۰ تومان می‌فروشد. اگر آقای یوسفی ۶ مداد را بفروشد، چند تومان سود می‌کند؟ ✍



۱) ۲۰۰ ۲) ۲۵۰

۳) ۳۰۰ ۴) ۳۵۰

۳-عبارت مربوط به دسته‌بندی شکل زیر، کدام می‌باشد؟

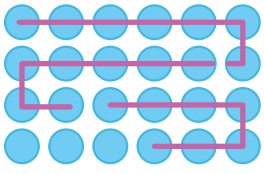

۱) $۷+۷+۶+۴=۲۴$

۲) $۴+۴+۴+۴+۴=۲۴$

۳) $۶+۶+۶+۶=۲۴$

۴) $۷+۷+۷+۳=۲۴$

۴-کدام گزینه رابطه‌ی بین عددهای روبه‌رو را به‌خوبی توصیف می‌کند؟ ✍ ..... , ... , ... , ۱۵۰ , ۱۰۰ , ۵۰

۱) عددها ۱۰۰ تا ۱۰۰ تا اضافه شده‌اند.

۲) عددها ۵۰ تا ۵۰ تا اضافه شده‌اند.

۳) عددها ۷۵ تا ۷۵ تا اضافه شده‌اند.

۴) عددها ۲۵ تا ۲۵ تا اضافه شده‌اند.

۵-کوچک‌ترین عدد مشترک بین ۳ الگوی عددی زیر کدام است؟

الگوی۱ → ۰ , ۲ , ۴ , ...

الگوی۲ → ۱۲ , ۲۴ , ۳۶ , ...

الگوی۳ → ۰ , ۳ , ۶ , ...

۱) ۱۲ ۲) ۱۸ ۳) ۳۰ ۴) ۲۴

نارنج بوک
تلاشی در مسیر موفقیت

۶- عدد وارد شده به ماشین روبه‌رو، با حاصل کدام‌یک از عبارت‌های زیر برابر است؟

? → [+۶] → ۲۶

۱) ۵+۱۰+۹=

۲) ۱۰+۲+۹=

۳) ۸+۷+۴=

۴) ۵+۵+۵+۵=

۷- در ماشین روبه‌رو به‌جای [؟] چه عددی قرار می‌گیرد؟

[؟] —+۲۱→ [ ] —−۳۷→ [۱۰۹]

۱) ۱۵۲

۲) ۱۲۵

۳) ۱۴۶

۴) ۱۶۴

۸- آقای مربی به ورزشکاران گفت: «از امروز با ۱۵ دقیقه تمرین ورزش را شروع کنید و یک روز در میان، ۱۵ دقیقه به تمرین خود اضافه کنید تا به روزی ۲ ساعت تمرین برسید.» چند روز لازم است که بچه‌ها به روزی ۲ ساعت تمرین برسند؟

۱) ۱۴ روز

۲) ۱۶ روز

۳) ۱۰ روز

۴) ۱۲ روز

۹- علی که دانش‌آموز است، کمبود ویتامین دارد و دکتر به او گفته که هفته‌ی اول باید ۱۴ قرص ویتامینی بخورد و هر هفته، دو قرص کم‌تر از هفته‌ی قبل بخورد. زمانی که به هفته‌ای ۴ قرص رسید، می‌تواند ورزش سنگین انجام دهد. علی بعد از چند هفته می‌تواند ورزش سنگین انجام دهد؟

۱) ۳

۲) ۴

۳) ۵

۴) ۶

۱۰- کدام شکل زیر بیش‌ترین تعداد خط تقارن را دارد؟

۱)

۲)

۳)

۴)

ریاضی
عددهای چهار رقمی – صفحه‌های ۲۵ تا ۴۲ کتاب درسی
زمان پاسخ‌گویی: ۱۵ دقیقه

۱۱–در مدرسه‌ای ۶ صف ۱۰ نفره و یک صف ۸ نفره داریم. این مدرسه چند دانش‌آموز دارد؟

۱) ۷۸
۲) ۷۲
۳) ۶۸
۴) ۶۶

۱۲–کدام عبارت مقدار ۱۰۰۰ را نشان می‌دهد؟

۱) ۱۰ تا ۱۰ تایی
۲) ۱۰ تا ۱۰۰ تایی
۳) ۲۰ تا ۱۰۰ تایی
۴) هیچکدام

۱۳–عددی چهار رقمی که یکانش ۸، دهگانش ۷، صدگانش بزرگ‌ترین عدد یک رقمی و هزارگان آن ۲ باشد، کدام است؟

۱) ۲۹۸۷
۲) ۲۱۸۷
۳) ۲۱۷۸
۴) ۲۹۷۸

۱۴–در جدول زیر، جاهای خالی را با گزینه‌ی مناسب کامل کنید.

عدد	گسترده‌ی عدد
۴۲۸۷	الف
ب	۷۰۰۰+۵۰۰+۳۰

۱) الف) ۷۰۰۰+۸۰۰+۲۰+۴ ب) ۷۰۵۳
۲) الف) ۴۰۰۰+۲۰۰+۸۰+۷ ب) ۷۵۰۳
۳) الف) ۷۰۰۰+۸۰۰+۲۰+۴ ب) ۷۳۵۰
۴) الف) ۴۰۰۰+۲۰۰+۸۰+۷ ب) ۷۵۳۰

۱۵–فرشاد ۳ سکه‌ی ۱۰۰ ریالی و ۵ سکه‌ی ۱۰ تومانی دارد. مجموع پول‌های او چند ریال است؟

۱) ۵۰۰
۲) ۳۰۰
۳) ۳۵۰
۴) ۸۰۰

۱۶–اگر پول شما به اندازه‌ی تصویر زیر باشد، در کدام گزینه می‌توانید هر کدام از موارد گفته شده را بخرید؟



– توپ پینگ پنگ: ۵۲۰ ریال
– جا کلیدی: ۳۵۰ ریال
– کتاب داستان: ۲۸۰ ریال
– ماشین اسباب‌بازی: ۷۵۰ ریال

۱) توپ پینگ‌پنگ – جاکلیدی
۲) کتاب داستان – جاکلیدی
۳) ماشین اسباب‌بازی – جاکلیدی
۴) ماشین اسباب‌بازی – توپ پینگ‌پنگ

شرنج بوک
موفقیت در مسیر موفقیت

۱۷- ارزش ۳ دلار کشوری، برابر ۲۰ ریال ایران است. ۴ تومان ایران معادل چند دلار آن کشور است؟

۱) ۴ دلار
۲) ۸ دلار
۳) ۵ دلار
۴) ۶ دلار

۱۸- هشتمین عدد الگوی روبه‌رو کدام است؟ ..... , ۸۲۰۰ , ۸۸۰۰ , ۹۴۰۰

۱) ۷۰۰۰
۲) ۵۲۰۰
۳) ۵۸۰۰
۴) ۷۶۰۰

۱۹- در هر یک از شکل‌های زیر، مستطیلی که عدد داخل آن به عدد داخل دایره نزدیک‌تر می‌باشد، رنگ شده است. در کدام شکل مستطیل، به‌درستی رنگ نشده است؟

۱) ۶۰۰۰ ← ۵۱۷۸ → ۵۰۰۰

۲) ۵۰۰۰ ← ۴۹۵۲ → ۴۰۰۰

۳) ۸۰۰۰ ← ۷۸۲۳ → ۷۰۰۰

۴) ۴۰۰۰ ← ۳۴۱۶ → ۳۰۰۰

نرنج بوک
تلاشی در مسیر موفقیت

۲۰- کدام گزینه نادرست است؟

۱) عدد ۴۷۰۲ یعنی ۲ یکی، صفر ده‌تایی، ۷ صدتایی و ۴ هزارتایی.

۲) ۵ یکی، ۲ ده‌تایی، صفر صدتایی و ۵ هزارتایی برابر با عدد ۵۰۲۵ است.

۳) عدد ۶۳۰۰ یعنی صفر یکی، صفر ده‌تایی، ۳ صدتایی و ۶ هزارتایی.

۴) حاصل جمع ۳ هزارتایی و ۴ هزارتایی برابر با ۷ صدتایی می‌شود.

علوم
زمان پاسخ‌گویی: ۱۰ دقیقه

زنگ علوم ، آب ماده‌ی با ارزش – صفحه‌های ۷ تا ۵۲ کتاب درسی

۲۱–از بین گزینه‌های زیر، کدام‌یک به احتمال زیاد سبکی و سنگینی اجسام را به‌درستی تشخیص می‌دهد؟

۱) علی اصغر با نگاه به کتاب گفت: «فکر می‌کنم این ۲۰۵ گرم باشد.»

۲) رضا دو توپ را در دو دستش گرفت و گفت: «توپی که در دست چپ دارم، سنگین‌تر است.»

۳) محمد حسن با استفاده از یک دستگاه، سبکی و سنگینی دو جسم (هندوانه) را با هم مقایسه کرد.

۴) فاطمه یک سنگ بزرگ را که در باغ بود، دید و به مادرش گفت: «فکر می‌کنم این سنگ، سنگین‌تر از ماشین ما باشد.»

۲۲–کدام‌یک از ردیف‌های جدول زیر درباره‌ی جانوران درست است؟

نام	تعداد پاها	تعداد بال‌ها	تعداد شاخک‌ها
مگس	۶	۲	۲
پروانه	۸	۴	۲
مورچه	۶	۰	۰
عنکبوت	۸	۰	۰

۱) مگس – پروانه

۲) مگس – عنکبوت

۳) عنکبوت – مورچه

۴) مورچه – پروانه

ترنج بوک
تلاش در مسیر موفقیت

۲۳–کدام اتفاق در چرخه‌ی آب باعث تشکیل ابرها می‌شود؟

۱) گرم شدن آب و تبدیل آن به بخار

۲) سرد شدن بخار آب موجود در هوا

۳) برگشتن آب باران به زمین

۴) جاری شدن آب رودخانه‌ها

۲۴–با توجه به جدول زیر که مربوط به دمای چهار شهر ایران در یک روز است، مشخص کنید در کدام‌یک از این شهرها تبخیر آب با سرعت کم‌تری انجام می‌شود؟

نام شهر	دمای شهر
تهران	۳۸
یزد	۴۲
سنندج	۳۳
چالدران	۲۵

۱) تهران

۲) یزد

۳) سنندج

۴) چالدران

۲۵-کدام گزینه درست است؟

۱) برای اندازه‌گیری حجم کمی از مایع‌ها، از یکای لیتر استفاده می‌کنیم.

۲) هر کیلوگرم برابر با ۱۰۰ گرم است.

۳) برای اندازه‌گیری جرم اجسام سبک‌تر معمولاً از گرم استفاده می‌کنیم.

۴) جرم اجسام را نمی‌توان با ترازو اندازه‌گیری کرد.

۲۶-مریم و سارا می‌خواهند بفهمند هر پرنده در یک هفته چند تخم می‌گذارد. کدام کار به آن‌ها کمک می‌کند تا پاسخ دقیق تری پیدا کنند؟

۱) یک پرنده را در یک روز مشاهده کنند.

۲) تعداد تخم‌های پرندگان را در مدت یک هفته بشمارند.

۳) از روی ظاهر پرندگان تعداد تخم ها را حدس بزنند.

۴) از یک نفر بپرسند و همان پاسخ را بنویسند.

۲۷-کدام گزینه درباره‌ی گروه‌های مواد غذایی درست است؟

۱) گروه لبنیات به محکم شدن استخوان‌ها کمک می‌کند.

۲) گروه میوه ها و سبزی‌ها فقط انرژی بدن را تأمین می‌کند.

۳) گروه چربی‌ها باعث محکم شدن استخوان‌ها می‌شود.

۴) گروه گوشت‌ها، تخم مرغ و حبوبات فقط باعث تأمین آب بدن می‌شوند.

نردبان بوک
تلاشی در مسیر موفقیت

۲۸- یک ترازوی تعادلی به شکل زیر داریم. در یک کفه‌ی ترازو پرتقال و در کفه‌ی دیگر سیب قرار دارد. چه کاری باید انجام دهیم تا دو کفه در یک راستا قرار بگیرند؟



۱) تعداد پرتقال‌ها را زیادتر کنیم.

۲) تعداد سیب‌ها را زیادتر کنیم.

۳) تعداد سیب‌ها را کم‌تر کنیم.

۴) گزینه‌های (۱) و (۳) می‌توانند درست باشند.

۲۹- اگر دمای هوای زمین به طور غیرطبیعی خیلی بالا برود و ابرها به اندازه‌ی کافی سرد نشوند، چه اتفاقی برای چرخه‌ی آب می‌افتد؟

۱) آب‌ها بیش‌تر تبخیر می‌شوند، بارش کمتر رخ می‌دهد و زمین خشک‌تر می‌شود.

۲) باران‌های بسیار شدید و همیشگی اتفاق می‌افتد.

۳) چرخه‌ی آب سریع‌تر می‌شود و مشکلی پیش نمی‌آید.

۴) آب بیشتری در ابرها جمع می‌شود و مقدار آب موجود در دریاها و رودخانه‌ها زیاد می‌شود.

۳۰- چرا با وجود اینکه بیش‌تر سطح زمین را آب پوشانده است، باز هم تأکید می‌شود که آب کم است؟

۱) چون بیش‌تر آب‌های زمین در اعماق زمین هستند.

۲) چون بیش‌تر آب‌های زمین شور هستند و قابل استفاده‌ی مستقیم برای کشاورزی و آشامیدن نیستند.

۳) چون بیش‌تر آب‌های شیرین در زیر زمین حبس شده‌اند و به آن‌ها دسترسی نداریم.

۴) چون آب های شیرین در اقیانوس‌ها پراکنده شده‌اند.

نارنج بوک
همراهی در مسیر موفقیت

«آزمون ۲۹ آبان» - سوم دبستان

سؤال‌هایی که با آیکون ✍ مشخص شده‌اند، سؤال‌هایی هستند که مشابه آن‌ها در امتحانات تشریحی مورد پرسش قرار می‌گیرد.

فارسی: **زمان پاسخ‌گویی: ۱۰ دقیقه**

ستایش، ... آواز گنجشک -صفحه‌های ۱۰ تا ۴۴ کتاب درسی / نگارش فارسی: صفحه‌های ۸ تا ۳۰ کتاب درسی

۳۱- در کدام گزینه کلمات مخالف بیش‌تری وجود دارد؟

۱) پدرم میز و صندلی‌ها را در بالا و پایین خانه چید.

۲) نقّاش در اثر خود، جهنّم را قرمز و بهشت را سبز کرد.

۳) مردان و زنان ایرانی در داخل و خارج کشور، برای سربلندی ایران تلاش می‌کنند.

۴) تکنولوژی در جامعه‌ی امروز، تحمّل کارهای دشوار را آسان کرده است.

۳۲- در بین واژگان زیر چند واژه نادرست معنی شده‌اند؟

«کینه: دشمنی کسی را در دل داشتن – نرم‌نرمک: آرام آرام – بیشه: روستا – حاکم: فرمانروا – دامنه‌ی کوه: بخش شیب‌دار پایین کوه - نگریست: گریه کرد - یقین بدان: مطمئن باش»

۱) دو ۲) چهار ۳) یک ۴) سه

۳۳- ✍ عبارت کدام گزینه به صورت نوشتاری است؟

۱) ای گل زیبا! چرا انقد خوشحالی؟

۲) حاکم دستور داد تا برای پسرش غذای مخصوص بپزن.

۳) تو دلت نمی‌خواد بدونی قبل از تو کی اینجا زندگی کرده است؟

۴) بعد از صحبت‌های مربی شنا، در دوره‌های آموزشی ثبت‌نام کردم.

۳۴- ✍ اگر کلمات زیر را در جاهای خالی قرار دهیم، کدام کلمه اضافی است؟

«او – من – تو – ما»

الف) ..... به راز زندگی اشاره کرده است.

ب) ..... راه زیادی را برای رسیدن به مدرسه طی کردم.

ج) ..... درس وطن‌دوستی را خوانده‌ایم.

۱) تو ۲) من ۳) او ۴) ما

۳۵- در کدام گزینه، غلط املایی وجود ندارد؟

۱) بحث ـ تصمیم ـ عضمت

۲) مواظب ـ غرق ـ منتظر

۳) صبح ـ سنوبر ـ ظرف

۴) دل‌پزیر ـ لحظه ـ ضبط

ترنج بوک

۳۶–در کدام گزینه تمامی کلمات با یکدیگر ارتباط دارند؟

۱) زمستان – بخاری – شنا
۲) پاییز – هلو – باد سرد
۳) تابستان – گرما – مرداد
۴) بهار – شکوفه – سرما

۳۷–بیت کدام گزینه نادرست است؟

۱) دیشب پدربزرگم، آمد به خانه‌ی ما / باز او مرا بغل کرد، بوسید صورتم را
۲) در دست پیر او بود، باز آن عصای زیبا / خندید و قلقلک داد، با آن عصا تنم را
۳) رود، آن قایق را، برد تا جایی دور / کودکی نیز آنجا، داشت می‌کرد عبور
۴) ناگهان قایق را، بر لب ساحل دید / ناگهان بر لب او، گل شادی رویید

۳۸–درکدام گزینه، همه‌ی واژه‌ها با یکدیگر هم‌خانواده نیستند؟

۱) ارتباط – مرتّب – ترتیب
۲) منظّم – نظام – ناظم
۳) عملیات – معمول – عامل
۴) شهادت – مشهود – شاهد

۳۹–با توجه به درس «آواز گنجشک»، کدام گزینه درست است؟

۱) بیشتر بچه‌ها درباره‌ی آلودگی صوتی اطلاعاتی داشتند.
۲) ممکن است ما به سر و صدا عادت کرده باشیم و آلودگی صوتی باعث خستگی ما نشود.
۳) صداهای زیان‌آور شنوایی کودکان را افزایش می‌دهند.
۴) هرگونه صدایی که انسان را ناراحت کند، آلودگی صوتی است.

۴۰–ضرب‌المثل «هرچه کنی به خود کنی» با کدام یک از ابیات زیر ارتباط کمتری دارد؟

۱) من اگر خوبم و گر بد تو برو خود را باش / هر کسی آن دِرَود عاقبت کار که کِشت (دِرَود: درو کند)
۲) نگر تا چه کاری همان بِدرَوی / سخن هر چه گویی همان بشنوی (چه کاری: چه چیز بکاری – بِدرَوی: درو کنی)
۳) دهقان سالخورده چه خوش گفت با پسر / کای نور چشم من به جز از کشته نَدروی (نَدروی: درو نکنی)
۴) دیگران کاشتند و ما خوردیم / ما بکاریم و دیگران بخورند

ترنج بوک
تلاش در مسیر موفقیت

مطالعات اجتماعی — زمان پاسخ‌گویی: ۵ دقیقه

من به دنیا آمدم، ... از بزرگ‌ترها قدردانی کنیم- صفحه‌های ۲ تا ۲۸ کتاب درسی

۴۱- طبق کتاب درسی، کدام گزینه نادرست است؟

۱) خانه و خانواده می‌تواند محیط تفریح و سرگرمی باشد.

۲) در خانواده، همیشه فرزندان از پدر و مادر مراقبت می‌کنند.

۳) اعضای خانواده به روش‌های مختلف، محبّت خود را به یکدیگر نشان می‌دهند.

۴) فرزندان برای قدردانی از پدر و مادر، به آن‌ها کمک می‌کنند و احترام می‌گذارند.

۴۲- کدام یک از گزینه‌ها، اشاره‌ای به آیه‌ی زیر ندارد؟

«به پدر و مادر نیکی کنید و چنانچه پیر شدند، با نرمی و مهربانی با آن‌ها سخن بگویید.»

۱) آرش هر روز برای مادرش که در نزدیکی آن‌ها زندگی می‌کند، نان تازه می‌گیرد.

۲) فاطمه هر شب به پدرش کمک می‌کند که داروهایش را بخورد.

۳) سالار در مرتب کردن خانه و پاک کردن سبزی به مادرش کمک می‌کند.

۴) مهدی از مادرش می‌خواهد تا برایش آش بپزد.

۴۳- کدام گزینه در مورد تغییر در خانواده نادرست است؟

۱) با گذشت زمان، تغییراتی در خانواده به‌وجود می‌آید.

۲) با ازدواج فرزندان و بچه‌دار شدن آن‌ها، پدر و مادر صاحب نوه می‌شوند.

۳) با تولد بچه‌های دیگر، خانواده‌های جدیدی به‌وجود می‌آید.

۴) گاهی ممکن است بعضی از اعضای خانواده برای کار به شهر دیگری بروند و دور از خانواده زندگی کنند.

۴۴- درستی یا نادرستی عبارت‌های زیر به‌ترتیب در کدام گزینه بیان شده است؟

الف) انسان‌ها استعدادها و توانایی‌های متفاوتی دارند.

ب) همه‌ی انسان‌ها از نظر قد و هیکل کاملاً یکسان هستند.

ج) همه‌ی انسان‌ها در انجام کارها توانایی یکسانی دارند.

۱) درست – نادرست – درست
۲) درست – درست – نادرست
۳) نادرست – نادرست – درست
۴) درست – نادرست – نادرست

۴۵- طبق کتاب درسی، کدام گزینه نادرست است؟

۱) فقط بعضی انسان‌ها چیزهای زیبا را دوست دارند.

۲) نوزادها تا دو ماهگی درست نمی‌بینند.

۳) شجره‌نامه نشان می‌دهد که افراد یک خانواده چه نسبتی با هم دارند.

۴) نام دیگر شجره‌نامه، درخت خانوادگی است.

«آزمون ۲۹ آبان» – سوم دبستان

هدیه‌های آسمان: **زمان پاسخ‌گویی: ۵ دقیقه**

آستین‌های خالی، ... ، روز دهم – صفحه‌های ۸ تا ۳۹ کتاب درسی

۴۶–کدام یک از گزینه‌های زیر، از نمونه‌های استفاده‌ی صحیح از نعمت‌های خدا است؟

۱) محمد در فوتبال مهارت زیادی دارد و دوستانش را مسخره می‌کند.

۲) علی روی درختان پارک، یادگاری می‌نویسد.

۳) فاطمه به یک زن سالمند کمک می‌کند تا به منزلش برسد.

۴) زهرا با پرتاب سنگ به پرندگان، آن‌ها را اذیت می‌کند.

۴۷–با توجه به درس «همیشه با من»، کدام گزینه نادرست است؟

۱) حضرت محمد (ص) نیز مثل همه‌ی انسان‌ها زندگی می‌کردند.

۲) محمد گردنبندی را که حلیمه به او داده بود، به گردنش انداخت تا او را از خطرها حفظ کند.

۳) حلیمه محمد را از مکه به صحرا آورده بود تا او را در هوای پاک صحرا بزرگ کند.

۴) نگرانی محمد از این‌که برادرانش هر روز باید سختی و خطر بیابان را تحمل کنند، نشانه‌ی دلسوزی و مهربانی اوست.

۴۸–کدام گزینه پیام اصلی داستان «در کاخ نمرود» را دقیق‌تر بیان می‌کند؟

۱) انسان برای رسیدن به حقیقت باید با صاحبان قدرت مخالفت کند، حتی اگر دلیل کافی نداشته باشد.

۲) برای اثبات نادرستی بت‌پرستی باید با بت‌پرستان و حاکمان سرزمین‌ها وارد مبارزه شد.

۳) پادشاهان نمی‌توانند بر مردم حکومت کنند، زیرا قدرت واقعی فقط در دست خداوند است.

۴) ایمان به خدای یگانه انسان را در برابر ادعاهای نادرست استوار و شجاع می‌کند.

۴۹–کدام گزینه نادرست است؟

۱) امام حسین (ع) و یارانش در روز اول محرم به شهادت رسیدند.

۲) با توجه به آیات قرآن، خداوند کسانی را که در راه او مبارزه می‌کنند، دوست دارد.

۳) بنابر سخن امام حسین (ع)، اهل بیت پیامبر (ص) ذلّت و خواری را نمی‌پذیرند.

۴) امام حسین (ع) و یارانش به دست مردم نادان به شهادت رسیدند.

۵۰–خداوند در آیه‌ی شریفه‌ی «اُذکُروا نِعمَتَ اللهِ عَلَیکُم»، چه توصیه‌ای به انسان‌ها می‌کند و در آیه‌ی «اَلَم نَجعَل لَهُ عَینَین» به کدام یک از نعمت‌های خدادادی اشاره شده است؟

۱) یاد کردن نعمت‌های خدا – دو چشم

۲) یاد کردن نعمت‌های خدا – دو لب

۳) استفاده‌ی درست از نعمت‌های خدا – دو چشم

۴) استفاده‌ی درست از نعمت‌های خدا – دو لب

سوالات بخش اختیاری

خواندن برای فهمیدن

دوست خوبم داستانی که در صفحه‌های بعدی آمده را بخوان و سپس به سؤالات آن با دقّت پاسخ بده.

ترنج بوک
تلاشی در مسیر موفقیت

گروه آزمون
بنیاد علمی آموزشی قلم‌چی (وقف عام)

خواندن برای فهمیدن – داستان مبعث

مدت زمان خواندن داستان: ۱۰ دقیقه



مبعث حضرت محمد

تلاشی در مسیر موفقیت

سالیان دور در یکی از شب‌های پایانی ماه رجب، در گوشه‌ای از شهر مکه و در بالای کوهی به نام حرا، اتفاق بزرگی افتاد؛ اتفاقی که سرنوشت انسان‌ها را عوض کرد و مژده‌ی بزرگی برای انسان‌ها آورد. در آن شب، حضرت محمد که ۴۰ ساله بود، در غار حرا مثل شب‌های دیگر مشغول عبادت و راز و نیاز با خدای مهربان بود. ناگهان دید فرشته‌ی خدا وارد غار شد. فرشته نزدیک و نزدیک‌تر می‌شد. از چهره‌اش پیدا بود که خبر مهمی دارد. نام آن فرشته جبرئیل بود.

جبرئیل نوشته‌ای به همراه خود آورده بود و از حضرت محمد خواست تا آن را بخواند. پیامبر فرمود: «نمی‌توانم بخوانم. زیرا من سواد خواندن ندارم» فرشته دوبار دیگر از پیامبر خواست تا نوشته را بخواند و سرانجام لب‌های آسمانی پیامبر مشغول خواندن کلام الهی شد. این یک معجزه بود.

به این شب، مبعث می‌گویند، شب آغاز یک مأموریت بزرگ و مهم. فرشته آمده بود تا به حضرت محمد خبر پیامبر شدنش را از سوی خداوند اعلام کند.



دین دانش و پاکی

اولین سخنانی که جبرئیل از سوی خداوند برای پیامبر آورد، نشان می‌داد که انسان‌ها به یک دین و برنامه‌ی جدید که کامل‌ترین و آخرین دین خدا بود، دعوت شده‌اند. دینی که از مژده‌های آن دانایی و پاکی بود. دینی که از مردم می‌خواست تا از گمراهی و نادانی دست بردارند و به خواندن و یادگیری و دانایی روی بیاورند و تلاش کنند تا پاک‌ترین انسان‌ها شوند. این برنامه برای همه انسان‌ها بود و پیامبر مأمور شده بود تا آن پیام را به گوش همه‌ی مردم برساند.

همیشه با خدا

پیامبر گرامی اسلام از همان کودکی به یاد خدا بود و با او صحبت می‌کرد. زمانی که چهارساله بود و در صحرا پیش دایه‌ی خود حلیمه زندگی می‌کرد، روزی از مادر خواست که همراه برادران خود، به گردش برود. حلیمه لباس‌های او را مرتب کرد و او را آماده‌ی گردش ساخت. پیش خود فکر کرد که نکند خطرهایی که در صحرا است به او آسیب برساند؛ به همین خاطر، مهره‌ای را با نخ به گردن پیامبر آویزان کرد تا از او محافظت کند؛ چون فکر می‌کرد آن مهره‌ها توانایی این کار را دارند. محمد مهره را از گردن بیرون آورد و به حلیمه گفت: «نیازی به این مهره‌ها نیست؛ خدای من، همیشه با من است و از من مواظبت می‌کند.»



پیامبر خوبی‌ها

مردم در زمان پیامبر، کارهای زشتی می‌کردند؛ مثلاً بت‌هایی ساخته بودند و آن‌ها را داخل کعبه گذاشته بودند. آنها فکر می‌کردند که بت‌ها خدا هستند و به آنها کمک می‌کنند. هم‌چنین نوزادهایی که به‌دنیا می‌آمدند و دختر بودند را زنده زنده در خاک می‌کردند. به بهانه‌های کوچک با هم جنگ می‌کردند و تعداد زیادی کشته می‌شدند، دزدی می‌کردند و همدیگر را اذیت می‌کردند .

خداوند، حضرت محمد را به سوی مردم فرستاد تا به آنها کارهای خوب را یاد دهد. به آنها بگوید که بت‌هایی که خودشان ساخته‌اند، هیچ قدرتی ندارند. به آنها یاد بدهد که دخترها با پسرها فرقی ندارند، از آنها بخواهد که با هم مهربان باشند، جنگ و دزدی نکنند. پیامبر آمده بود که خوبی‌ها را کامل کند و مردم را به انجام آنها تشویق کند.

آخرین دین

آخرین دین، آخرین پیامبر و آخرین کتاب خدا، به سمت انسان‌ها نازل شده است. دین اسلام، با کتاب قرآن و تلاش پیامبری که نمونه‌ی اخلاق بود،آغاز شد؛ پیامبر راه سختی را در پیش داشت؛ چون مردم به راحتی از او این دین جدید را قبول نمی‌کردند امّا این یک مأموریت از سوی خداوند به حضرت محمد صلی الله علیه و آله بود تا مردم را به دین اسلام دعوت کند. از آن روز، سالیان درازی می‌گذرد و پیامبر ما موفق شد به خوبی دین اسلام را به مردم معرفی بکند. امروز دیگر پیامبر تنها نیست، بلکه میلیاردها مسلمان در تمامی کشورهای دنیا زندگی می‌کنند که به دستورات اسلام و راهنمایی‌های پیامبر گوش می‌دهند و به آن عمل می‌کنند.

«آزمون ۲۹ آبان»– سوم دبستان

سؤالات داستان مبعث — **زمان پاسخ‌گویی: ۱۰ دقیقه**

۵۱–چرا پیامبر متنی را که جبرئیل به او داد در ابتدا نمی‌خواند؟

۱) زیرا از دیدن جبرئیل تعجب کرده بودند.

۲) زیرا مسئولیت سنگین پیامبری ایشان را نگران کرده بود.

۳) زیرا سواد خواندن نداشتند.

۴) زیرا مفهوم متن، سخت و دشوار بود.

۵۲–با توجه به متن، کدام گزینه جزء ویژگی‌های دین اسلام نیست؟

۱) کامل‌ترین و آخرین دین خدا

۲) دینی که از مردم می‌خواست تا از گمراهی و نادانی دست بردارند.

۳) دینی که مردم را دعوت می‌کرد تا پاک‌ترین انسان‌ها شوند.

۴) دینی که فقط روی خواندن نماز تأکید داشت.

۵۳–با توجه به متن، مبعث حضرت رسول (ص) در کدام روز می‌تواند باشد؟

۱) ۱۵ شعبان ۲) ۲۷ رجب ۳) ۱۰ محرم ۴) ۱۸ ذی الحجه

۵۴–چه تعداد از موارد زیر جزء اشتباهات و رفتارهای نادرست مردم مکه قبل از ظهور پیامبر است؟

دزدی / جنگ‌های بی‌مورد / تخریب خانه‌ی کعبه / آزار و اذیت فرزندان پسر / بت پرستی

۱) دو ۲) سه ۳) چهار ۴) پنج

۵۵–چرا حلیمه مهره‌ای را به حضرت محمد داد؟

۱) تا خطرهایی که در صحرا است به او آسیب نزنند. ۲) تا خداوند محافظ محمد باشد.

۳) تا حضرت محمد راه را در بیابان پیدا کند. ۴) تا برادرانش به او حسادت نکنند.

۵۶–کدام‌یک از گزینه‌های زیر، نمونه‌ای از رفتارهای خوب پیامبر اسلام نیست؟

۱) به مردم می‌گفت بت‌هایی که خودشان ساخته‌اند، هیچ قدرتی ندارند.

۲) به مردم یاد داد که دخترها با پسرها هیچ فرقی ندارند.

۳) از مردم خواست با همدیگر مهربان باشند.

۴) مردم را به جنگ دعوت کرد.