تلاشی در مسیر موفقیت

ترنج بوک

- دانلود گام به گام تمام دروس
- دانلود آزمون های قلم چی و گاج + پاسخنامه
- دانلود جزوه های آموزشی و شب امتحانی
- دانلود نمونه سوالات امتحانی
- مشاوره کنکور
- فیلم های انگیزشی

Www.ToranjBook.Net

ToranjBook_Net

ToranjBook_Net

نام و نام خانوادگی:

بسمه تعالی

نام آموزگار:

ارزشیابی نوبت دوم ریاضی چهارم

مدت امتحان:

دبستان:

۱-کوچک ترین عدد شش رقمی را بنویسید که طبقه ی هزار۶۷۸ و بقیه رقم هایش تکراری نباشد.

۲-الگوی هندسی زیر راتا دو مرحله ادامه دهید.

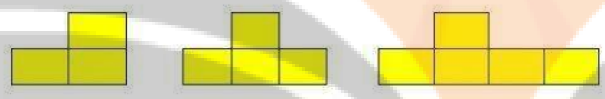

۳-جاهای خالی را با کلمات یا اعدادمناسب پر کنید.

الف)۸ هفته ، یعنی ..... روز.

ب)۲ لیتر و ..... لیتر می شود ۲/۷ لیتر.

ج)دو خطّ عمود بریک خط ، با هم ..... هستند.

د) به ضلعی که ارتفاع بر آن عمود می شود ، ..... می گویند.

س) ۴۰ تا $\frac{۱}{۸}$ متر می شود ..... متر .

۴-مینا ۳ قرص نان دارد . می خواهد آن ها را بین ۴ نفر به طور مساوی تقسیم کند. با رسم شکل ، مشخّص کنید به هر نفر چه قدر نان می رسد.

.....

تلاشی درمسیرموفقیت

۵- الف)زاویه ی باز را تعریف کرده و برای آن شکل رسم کنید.

ب)روی شکل اندازه ی زاویه ی خواسته شده را محاسبه کنید.

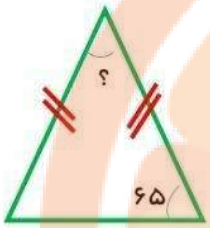

۶-تعداد همه ی پیامبران ۱۲۴۰۰۰ نفر است . این عدد را با تقریب رقم دهگان هزار بنویسید.

۷-حاصل ضرب زیر را به دست آورید.

۱ ۰ ۵
× ۹ ۸ ۰

۸- مساحت شکل مقابل را پیدا کنید.

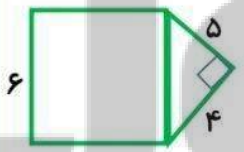

۹- فیلمی ساعت ۵:۲۰ دقیقه شروع و ساعت ۶:۴۰ دقیقه تمام شد. مدت زمان این فیلم چه قدر بوده است؟

تلاشی درمسیرموفقیت

۱۰-نمرات درس ریاضی یک دانش آموز در ۵ امتحان ۱۷ بوده است . اگر نمودار خط شکسته ی نمره های این دانش آموز را رسم کنیم ، به چه شکلی در می آید؟ چرا؟

۱۱-یک چرخنده به شکل مقابل است.احتمال این را که عقربه روی هر رنگ بیفتد ، با یک عبارت مشخّص کنید.

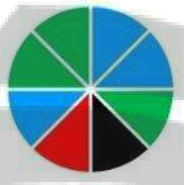

۱۲-تقسیم زیر را انجام داده و رابطه ی درستی آن را بنویسید.

۸۷۳۹ | ۹

۱۳-حاصل تفریق زیر را به کمک محور محاسبه کنید.

$۳/۶-۲/۱=$

۱۴-حاصل عبارت مقابل را به دست آورید.

$(۲\times\frac{۳}{۸})-(۳\times\frac{۱}{۸})=$

موفق باشی عزیزم.

تلاشی درمسیر موفقیت

تلاشی در مسیر موفقیت

ترنج بوک

- دانلود گام به گام تمام دروس
- دانلود آزمون های قلم چی و گاج + پاسخنامه
- دانلود جزوه های آموزشی و شب امتحانی
- دانلود نمونه سوالات امتحانی
- مشاوره کنکور
- فیلم های انگیزشی

Www.ToranjBook.Net

ToranjBook_Net

ToranjBook_Net